平成27年度
ほっかいどうチャレンジテスト

前年度サポート問題１（第１回）
算数小３　　年　　組　　番 し名

1

家を出てから学校につくまでの時間は、何分間でしょうか。



2

次の問題に答えましょう。

（１）下の電気ポットに入る水のかさを、**ア**、**イ**、**ウ**のあらわし方で書きましょう。

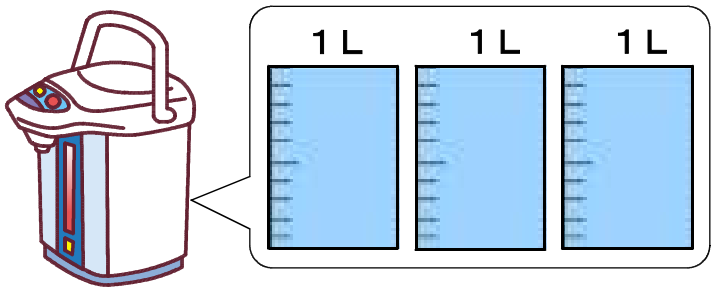

ア　　Ｌ

イ　　ｄＬ

ウ　　ｍＬ

（２）りょうさんは、じょうろに水を入れて花だんに水やりをします。
大きなじょうろには２Ｌ４ｄＬ、小さなじょうろには１Ｌ入ります。
大きなじょうろは、小さなじょうろより何Ｌ何ｄＬ多く水が入りますか。
式と答えを書きましょう。

【大きなじょうろ】

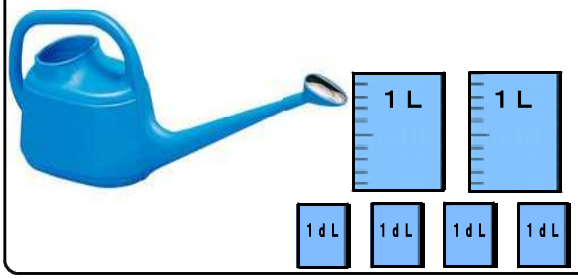

【小さなじょうろ】

式

答え

＿＿＿＿＿＿＿＿多く水が入る。

／６問中